На лугу, в растительном сообществе которого было определено соотношение экологических групп растений по отношению к влаге, начали появляться зоны постоянного подтопления. Используя модели 1–3, спрогнозируйте, в какой последовательности будут сменяться сообщества на данной территории.

| **Экологическая группа** | **Модель изученного сообщества** | **Модель** | | |
|---|---|---|---|---|
| | | 1 | 2 | 3 |
| Гигрофиты | 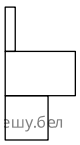 | 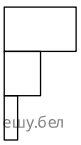 | 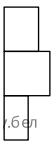 | 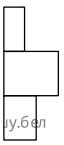 |
| Мезофиты | | | | |
| Ксерофиты | | | | |

*Ответ запишите цифрами, соблюдая полученную последовательность. Например: 132.*